se ravitailler en cu...

À quelle distance du départ est situé le 1er ...

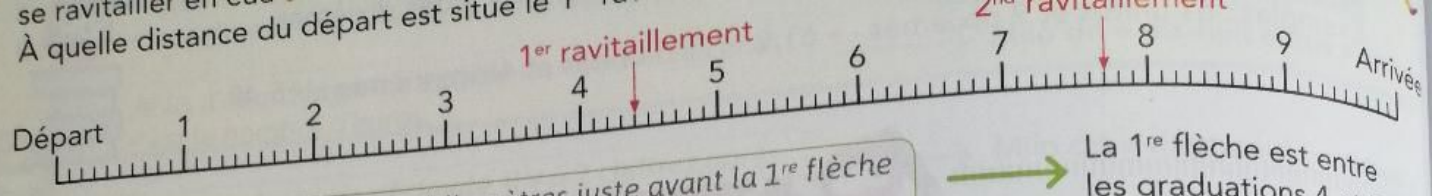

Je cherche le nombre entier de kilomètres juste avant la 1re flèche et le nombre entier juste après la 1re flèche. → La 1re flèche est entre les graduations 4 et 5.

*Chaque unité est partagée en **dixièmes**. Je compte le nombre de dixièmes après le 4.* → Il y a 4 graduations après le 4.

Le 1er ravitaillement se situe à 4,4 km de la ligne de départ.

B À quelle distance du départ est situé le 2nd ravitaillement ?

ENTRAÎNONS-NOUS

1 **Trouve** le nombre décimal qui correspond à chaque lettre.

a. 1,2 – 0,4 – 1,6 – 0,8

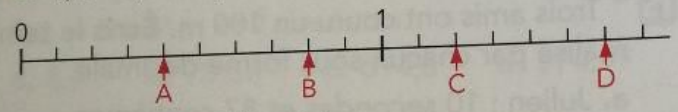

b. 9,7 – 9,25 – 9,8 – 9,6



c. 9,46 – 9,15 – 9,41 – 9,28

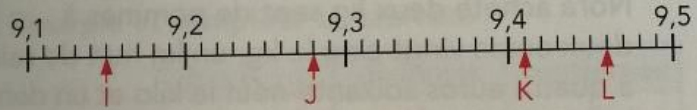

2 **Recopie** la ligne graduée, puis **place** ces lettres.

a. A = 1,6 B = 0,3 C = 0,9 D = 1,2
E = 1,1 F = 0,2 G = 0,6



b. H = 5,1 I = 5,84 J = 5,18
K = 5,91 L = 5,05 M = 5,29

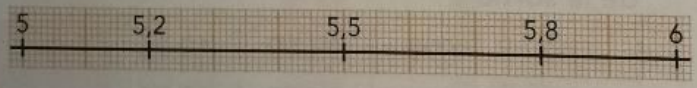

3 **Trouve** le nombre décimal qui correspond à chaque lettre.

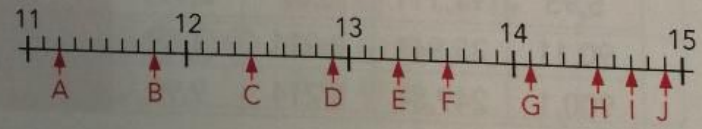

4 **a. Recopie** la ligne graduée, puis **place** ces nombres décimaux.

8,3 – 9,6 – 10,1 – 7,8 – 10,8

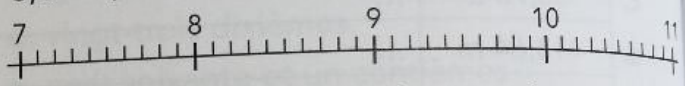

b. Recopie et **complète** les encadrements. **Aide**-toi du placement que tu as fait sur la ligne graduée.

- … < 8,3 < … • … < 9,6 < … • … < 10,1 < …
- … < 7,8 < … • … < 10,8 < …

5 **Encadre** ces nombres décimaux entre 2 nombres entiers successifs. 2 < 2,5 < 3

a. … < 3,8 < … **c.** … < 1,2 < …

b. … < 0,8 < … **d.** … < 3,3 < …

6 **Recopie** la ligne graduée et **place** ces nombres décimaux. Puis **indique** quel est le nombre entier le plus proche. 2,8 → 3

a. 1,9 **b.** 1,2 **c.** 2,4 **d.** 3,6 **e.** 0,2

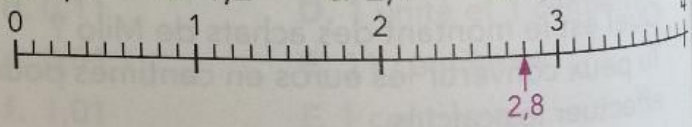

7 **Recopie** la ligne graduée et **place** ces nombres décimaux. Puis **indique** quel est le nombre entier le plus proche.

a. 25,8 **b.** 27,1 **c.** 24,5 **d.** 26,3 **e.** 27,9