Géom 7 a une tête carrée. Ses 3 yeux sont des triangles. Parmi les 4 Géoms représentés, lequel est Géom 7 ?



*Je lis **la description** phrase par phrase. J'élimine, au fur et à mesure, les figures qui ne correspondent pas à la description.*

Géom 7 a une tête carrée. → Le B et le C n'ont pas une tête carrée.

Les 3 yeux de Géom 7 sont des triangles. → Les yeux du A ne sont pas des triangles.

Géom 7 est le Géom D : il a une tête carrée et ses 3 yeux sont des triangles.

B Géom 8 a une tête circulaire. Ses 3 yeux sont des carrés. Lequel est-ce ?

ENTRAÎNONS-NOUS

1 **Nomme** les figures d'après leur description.

a. Je suis un polygone. J'ai 3 côtés.

b. Je suis un quadrilatère ; mes 4 côtés sont égaux. Je n'ai pas d'angles droits.

c. Je suis un quadrilatère. J'ai 4 angles droits.

d. J'ai 4 côtés égaux et 4 angles droits.

2 Pour chaque figure, **trouve** la bonne description.

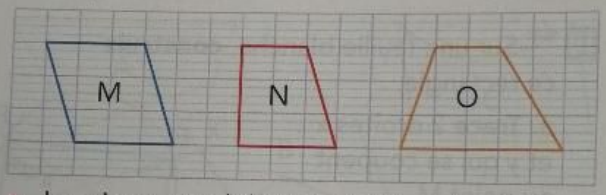

a. Je suis un quadrilatère. J'ai 2 angles droits et 2 côtés parallèles.

b. Je suis un quadrilatère. Je n'ai que 2 côtés parallèles.

c. Je suis un quadrilatère ; mes côtés opposés sont parallèles.

3 Pour chaque figure, **trouve** la bonne description.

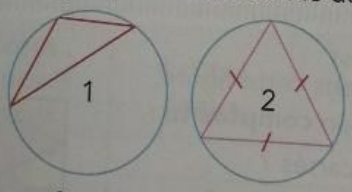

a. Je suis une figure composée d'un triangle équilatéral et d'un cercle.

b. Je suis une figure composée d'un triangle quelconque et d'un cercle.

4 **Décris** ces figures.

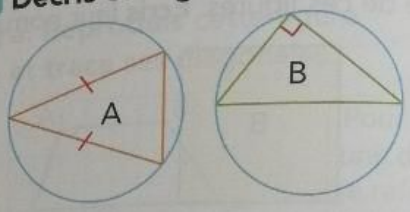

Prends modèle sur les descriptions de l'exercice 3.

5 Pour chaque figure, **trouve** la bonne description.

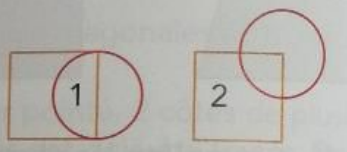

a. Je suis une figure composée d'un cercle et d'un carré. Le centre du cercle est un sommet du carré.

b. Je suis une figure composée d'un cercle et d'un carré. Le centre du cercle est le milieu d'un côté du carré.

6 **Décris** ces figures.


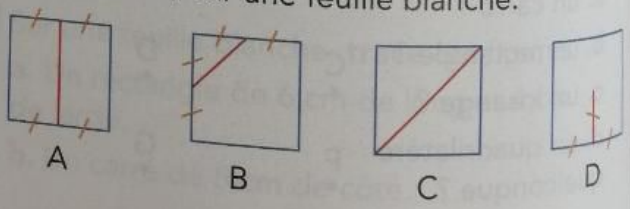
7 **Choisis** l'une de ces figures, **décris**-la, puis **reproduis**-la sur une feuille blanche.