Situations de partage

A1 **Observe** les dessins et **complète**.

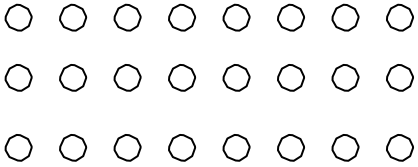

24 partagé en 3 = 8

24 partagé en 8 = 3



45 partagé en 5 = 9

45 partagé en 9 = 5

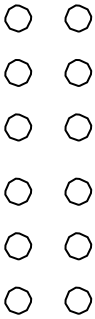

12 partagé en 2 = 6

12 partagé en 6 = 2

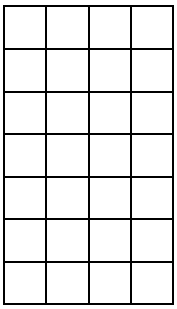

28 partagé en 4 = 7

28 partagé en 7 = 4

A2 **Complète** les multiplications.

- 9 × 2 = 18
- 4 × 3 = 12
- 3 × 7 = 21
- 8 × 8 = 64
- 8 × 4 = 32
- 8 × 5 = 40
- 4 × 9 = 36
- 9 × 6 = 54

A3 **Complète**.

- 4 × 8 = 32 → 32 partagé en 8 = 4
  → 32 partagé en 4 = 8
- 8 × 6 = 48 → 48 partagé en 8 = 6
  → 48 partagé en 6 = 8

A4 **Complète** les phrases.

- Dans 9, combien de fois 3 ? 3 fois
- Dans 35, combien de fois 5 ? 7 fois
- Dans 30, combien de fois 6 ? 5 fois
- Dans 49, combien de fois 7 ? 7 fois

A5 **Résous** les problèmes.

- Dans cette classe de CE2, il y a 24 élèves. Le maître fait 6 équipes pour le jeu en EPS.

Calcule le nombre d'élèves par équipe.

6 x ? = 24 6 x 4 = 24

Le nombre d'élèves par équipe est de 4.

- Atsuko a 25 bonbons. Il les partage entre ses 5 amis.

Calcule le nombre de bonbons qu'Atsuko offre à chacun.

5 x ? = 25 5 x 5 = 25

Atsuko offre 5 bonbons à chacun de ses amis.

© Hachette Livre 2017 – Litchi Photofiches CE2 – Reproduction autorisée pour une classe