**5** **Complète** les égalités.

| | | | | | |
|---|---|---|---|---|---|
| 1 L | → | ..... cL | 50 cL | → | ..... dL |
| 200 cL | → | ..... L | 45 dL | → | ..... cL |
| 1 L | → | ..... dL | 6 L 30 cL | → | ..... cL |
| 30 dL | → | ..... L | 810 cL | → | ..... L ..... cL |
| 1 dL | → | ..... cL | 65 dL | → | ..... L ..... dL |




**6** **Numérote** ces contenances de la plus petite (1) à la plus grande (6).

| 400 L | 500 cL | 3 L 25 cL | 2 L | 40 dL | 125 cL |
|---|---|---|---|---|---|
| ○ | ○ | ○ | ○ | ○ | ○ |

## LES MATHS DANS LA VIE

**7** Un canadair contient environ 1 950 L d'eau. Pour éteindre un feu de forêt, le canadair a été obligé de déverser 5 fois sa capacité totale d'eau. **Quelle a été la quantité d'eau nécessaire pour éteindre ce feu ?**

## DÉFI

**8** Une sorcière veut réaliser sa potion magique. Elle mélange les ingrédients suivants. **Trouve** la contenance de sa fiole de potion magique.




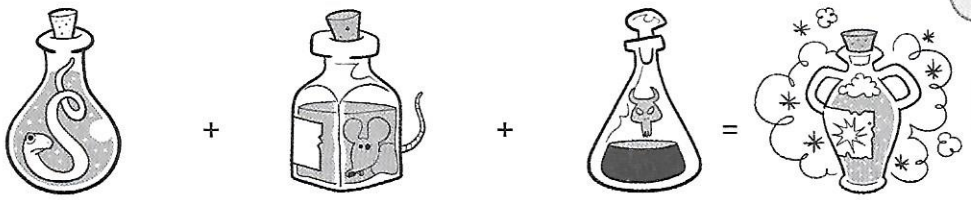

| Venin de serpent | Jus de souris | Sang de dragon | Potion |
|---|---|---|---|
| 3 dL | un demi-litre | 6 cL | ..... cL |



© MDI/SEJER, 2019. Reproduction autorisée pour une classe seulement.