Nom et prénom : ..... Date : .....

80 La symétrie

Parcours B

FICHIER PAGES 144 ET 145

Si tu as besoin d'aide, regarde le Retenir à la page 148 de ton fichier.

B1 **Décalque** les figures et **trouve**, pour chacune, un axe de symétrie par pliage. _____
Trace-le ensuite sur chaque figure.

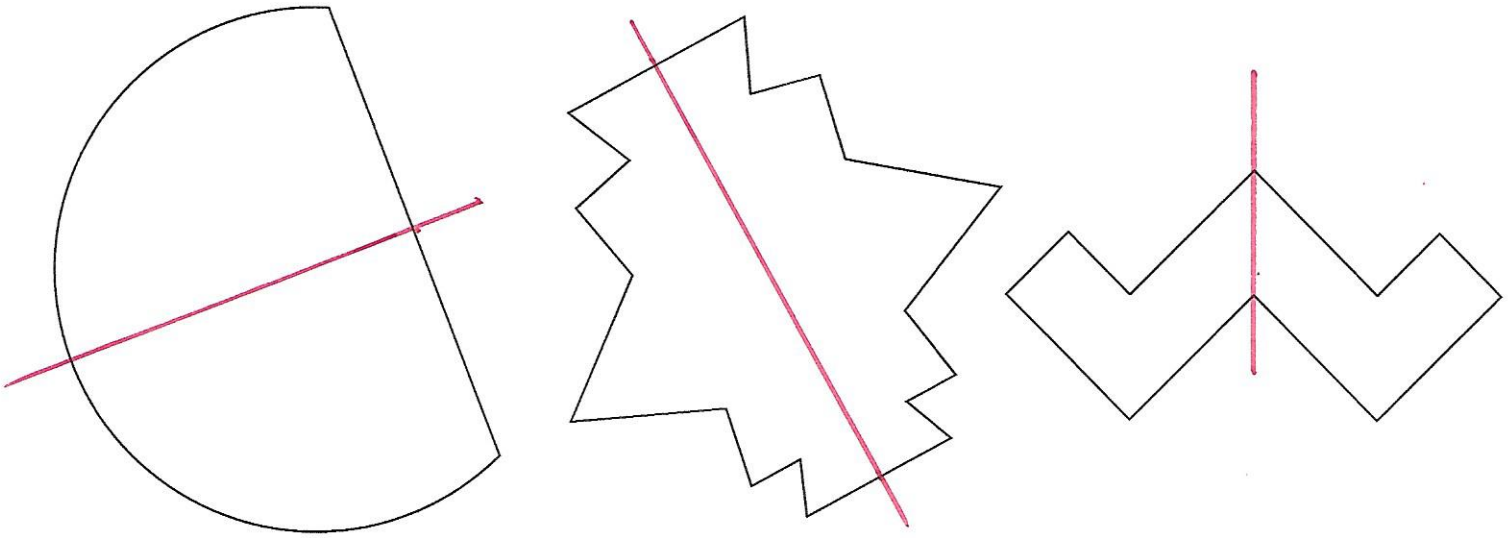

B2 Lesquelles de ces figures ont au moins un axe de symétrie ? _____
Vérifie à l'aide du papier-calque, puis **trace**-les sur les figures.



B3 **Complète** ces figures pour qu'elles soient symétriques par rapport à l'axe en gras. _____

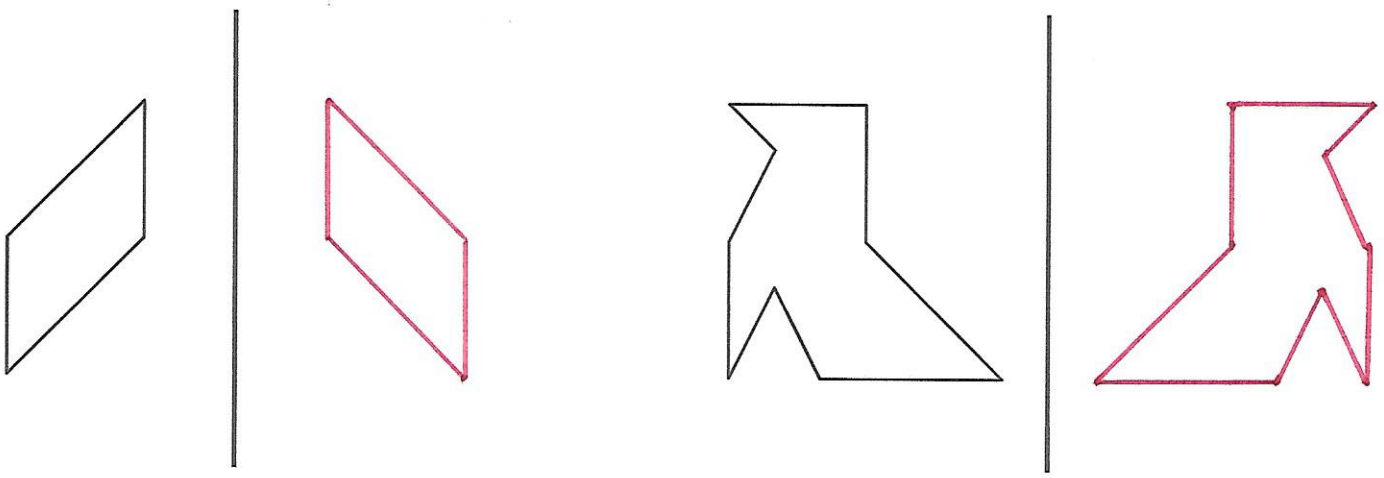

© Hachette Livre 2017 – Litchi Photofiches CE2 – Reproduction autorisée pour une classe seulement.