4 **Indique** la capacité du liquide présent dans chaque récipient.



Entre ..... et ..... litres



..... litres

5 **Colorie** la capacité du liquide présent dans chaque récipient.



25 litres



Entre 700 et 800 litres

LES MATHS DANS LA VIE

6 M. Rouletabosse est parti en vacances. Au départ, il a fait le plein d'essence de sa voiture. Son réservoir contient 40 litres d'essence. Voilà ce qu'indique sa jauge d'essence à l'arrivée.
Combien reste-il d'essence à M. Rouletabosse ?

DÉFI

7 Mathilde, Clément et Noura partent en camping. **Qui a pris le plus d'eau ?**

.....

Mathilde



.....L

Clément



.....L

Noura



.....L

© MDI/SEJER, 2019. Reproduction autorisée pour une classe seulement.